aVolar

MATEMÀTIQUES

A PARTIR DE CONTEXTOS
DE LA VIDA QUOTIDIANA

MATEMÀTIQUES 2

5
ANYS

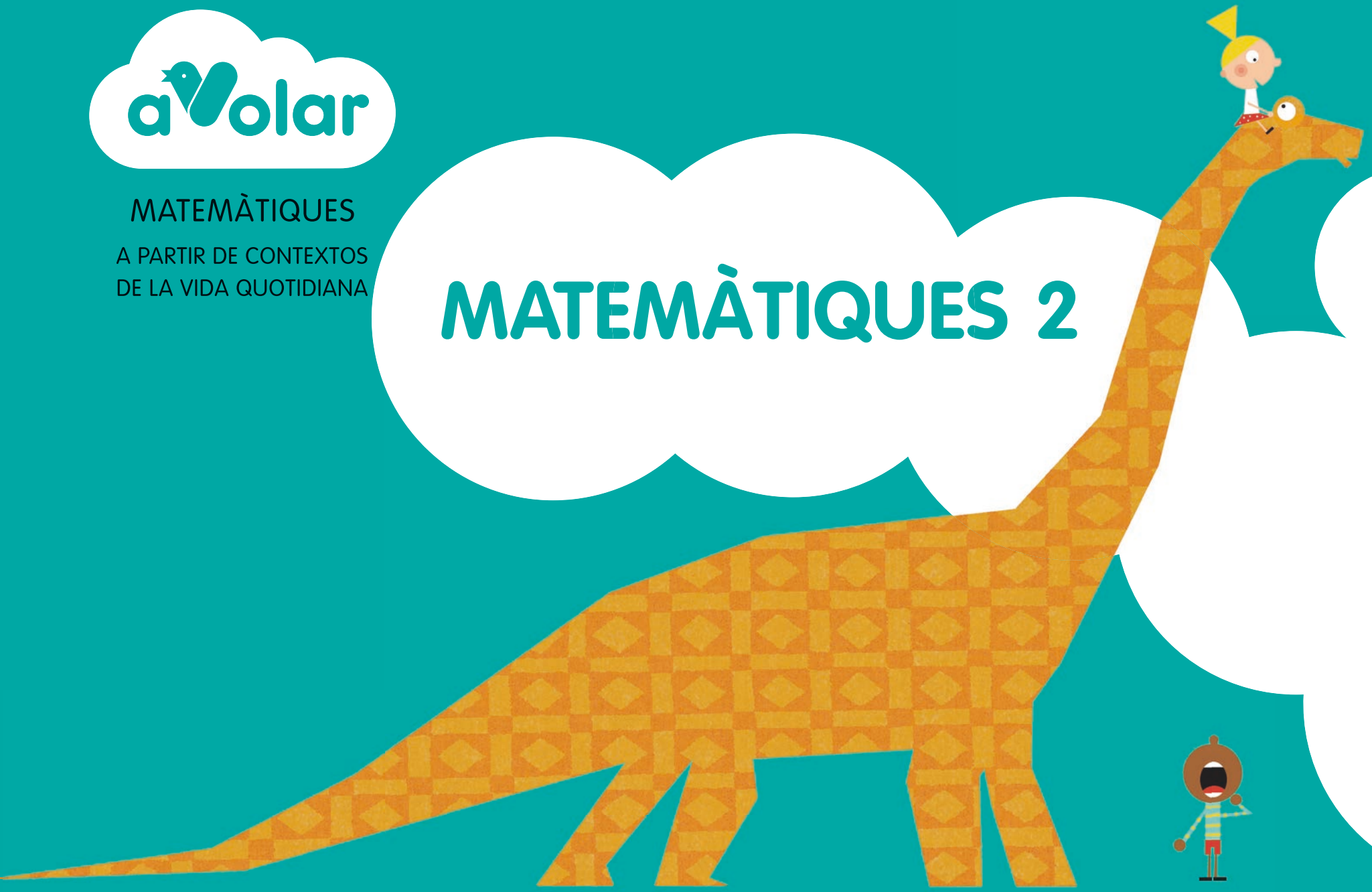

Casals

Àngel Alsina

CAPACITATS: 1, 3, 4, 5, 6, 9

1

Una sortida a la neu

Casals

Observa tot el que hi ha a la pista d'esquí.
DORS. Pinta els esquiadors com a l'escena inicial.

CAPACITATS: 1, 4 , 5

2 LÒGICA

CLASSIFICACIÓ 1	CLASSIFICACIÓ 2



AMB GORRA
I SENSE GORRA

AMB ULLERES DE SOL
I SENSE ULLERES DE SOL

AMB ESQUÍS
I SENSE ESQUÍS

Classifica els vuit esquiadors de dues maneres diferents. (Adhesius 2)

ACTIVITAT OPCIONAL. Observa com s'han classificat els esquiadors. Després, encercla el criteri que s'ha fet servir per classificar-los.

3 NUMERACIÓ

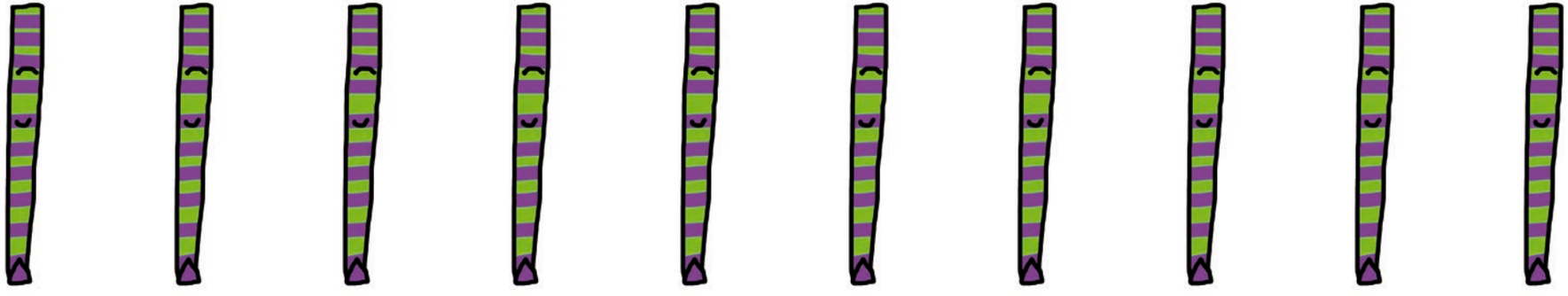

ESQUIADORS

ESQUÍS

XX XXXXXX XXXXX XXXXXXXXX

Relaciona cada esquiador amb els esquís corresponents. Després, marca de què n'hi ha més.

ACTIVITAT OPCIONAL. Relaciona cada grup d'esquiadors amb la representació corresponent.

4 NUMERACIÓ